新北市立福和國中 114 學年度第一學期第三次段考八年級社會科試題卷

地理科【選擇題：17 題，共 34 分】

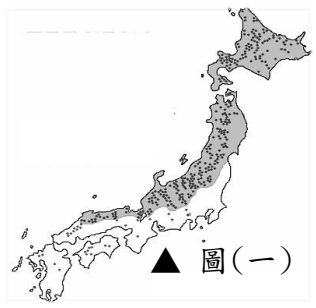
▲ 圖(一)

1. 圖(一)為日本室外滑雪場分布圖，其中灰色著色處為日本年降雪量達 37 日以上地區。觀察圖(一)中本州島室外滑雪場的分布與降雪位置特性，推斷該現象與日本以下何種降水類型有關？

(A) 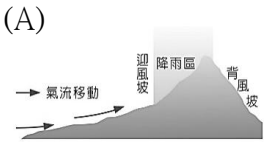

(B) 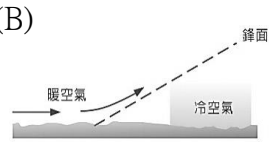

(C) 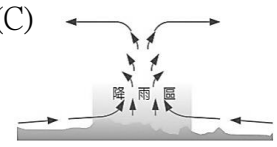

(D) 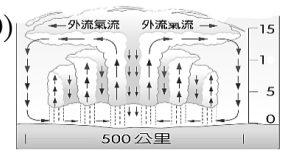

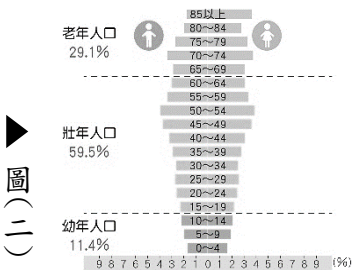

▶ 圖(二)

2. 圖(二)為日本 2023 年的人口金字塔圖。參考圖(二)內容，以下敘述中哪些與圖中所傳達的資訊有所關聯？
(甲)國家未來面臨勞動力老化問題 (乙)發展機械化農業減少勞動依賴
(丙)半導體產業佔居全球領先地位 (丁)發明ＡＩ機器人協助長照產業
(A)甲乙丙 (B)甲乙丁 (C)甲丙丁 (D)乙丙丁

3. 正在努力自學韓語的子婷發現，韓語中有許多單字的發音和國語甚至閩南語相似，韓文字也和中文字一樣，擁有字體方正、可直式書寫等特性，顯現出朝鮮半島過去曾受中國文化影響，並在長時間的發展下，發展出屬於自身的韓式風格。則以下所列舉之選項中，何者**並非**屬於南韓受中國影響之處？
(A)住家庭院掛上鯉魚旗 (B)於中秋節時食用松餅 (C)漢傳佛教的建築格局 (D)重視針灸的傳統醫學

4. 汽車是人們常見的代步工具，現今市面上也流通著許多知名的汽車品牌。根據港媒報導，2024 年全球汽車銷售量排行榜，日本豐田(Toyota)以 1080 萬輛的龐大業績，再度蟬聯冠軍成為「車界銷量一哥」，本田、日產集團亦位居前十，足見日本汽車在國際上的影響力，對其國內經濟亦貢獻良多。以下選項中，何者為日本汽車工業發展的特色？
(A)因礦產資源豐富可自行掌握汽車原料 (B)帶動日本成為亞洲地區的工業化先驅
(C)企業多將汽車工廠設立於日本海沿岸 (D)因動力成本提升而有產業衰退之風險

5. 根據交通部觀光署觀光統計資料庫顯示，2025 上半年國人出國旅遊目的地，前三名毫無懸念為日本、中國與南韓。其中位居東北亞的日、韓兩國，對臺人來說除了具有距離近、直飛班次多、適合短期旅遊等優勢外，當地鮮明的地方文化特色也是促成旅客多次再訪的原因之一。有關日、韓兩國近年蓬勃發展的文化產業，以下選項中何者最可能為南韓？
(A)透過木製傳統工藝振興與保存文化遺產 (B)主打動漫文化吸引世界各國動漫迷朝聖
(C)利用電玩與遊戲機等熱門商品席捲全球 (D)政府透過政策獎勵將影視文化推向國際

6. 2025 年的日本並不平靜，地震活動相較去年更加頻繁。從一月中旬宮崎縣的日向灘地震(規模 6.6)，到十二月初青森縣的東方沖地震(規模 7.6)，大規模的強震皆造成日本國內許多顯著災情。藉由上述文字可發現，日本是一座與地震共存的島嶼，則下列選項中，何者**不是**和日本多地震有關的特色？
(A)居民房屋多為木製建築 (B)針對海嘯進行防災演練 (C)屋頂斜度較大的合掌造 (D)豐富的地熱與溫泉景觀

7. 圖(三)為亞洲分區示意圖。其中季風亞洲所在地區為斜線繪製處，虛線則是通過臺灣之重要緯線，則以下關於圖(三)中的資訊何者正確？
(A)斜線處之降水季節主要集中於冬季 (B)虛線為副熱帶與溫帶季風之分界線
(C)水稻為斜線處居民之重要糧食之一 (D)虛線以北之最冷月均溫皆小於 0 度

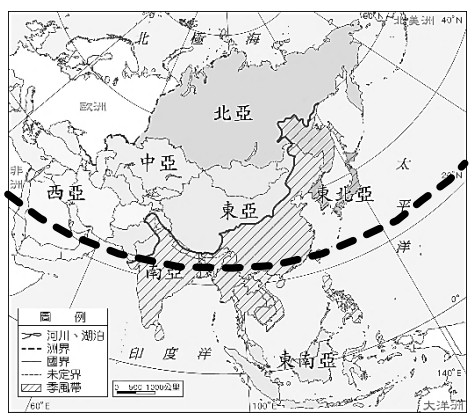

▶ 圖(三)

8. 同樣身處亞洲的臺灣與南韓在自然環境上有諸多相似之處，以下選項中何者為臺、韓所擁有之共同地理特色？
(A)主要山脈皆位於國土偏東 (B)兩地冬、夏季風風向相同
(C)兩國皆位處板塊接觸地帶 (D)兩國皆蘊藏豐富礦產資源

9. 在世界銀行(World Bank)的分類中，北韓屬於低收入國家，不只居民的網路使用率低，同時也具有極大的城鄉差距；世界糧食計畫署(WFP)亦統計出近兩年來北韓嚴峻的糧食供應問題，包含糧食安全穩定性低、5 歲以下兒童的急性營養不良等，諸多問題皆須依靠聯合國等國際組織介入援助。根據上文敘述推斷，下列哪些是使北韓居民生活品質較落後的原因？
(甲)緯度較高，作物生長季短 (乙)地狹人稠，人均耕地不足 (丙)重視國防工業，忽略民生 (丁)四面環山，進口糧食不易
(A)甲乙 (B)甲丙 (C)乙丙 (D)丙丁

10. 南韓存在著明顯的社會階級意識，富貴與底層間存在著一條巨大的鴻溝，許多知名影集如「魷魚遊戲」等也體現出社會底層居民的艱苦。對於一名南韓青年來說，擠身進入名門大學，前進三星、現代等頂尖企業效力，似乎成為翻轉階級的唯一路徑，而上述現象的產生，主要來自於南韓財閥的不斷擴張。以下選項中何者最能表達南韓財閥的特色？
(A)由民間領導且無政府投資 (B)提供公平競爭的就業環境 (C)致力於縮小社會貧富差距 (D)資金充足有利於多角經營

二、題組

第 11 至 13 題為題組

◎「在每年的夏季，日本各地森林、公園與溪邊，賞螢是一個不可錯過的休閒活動。無論是想重拾兒時記憶，或與伴侶共度美好夜晚，規劃一場賞螢之旅，讓夏季充滿回憶吧！」GOJAPAN 旅行社提供了六大賞螢勝地，包含天城螢火蟲祭、童謠公園、名草螢火蟲祭、室生川、內尾神社與赤村十津川，日本氣象廳也在網站上公布螢火蟲前線地圖如下方圖(四)所示。請問：

11. 居住在臺灣的廷瑋欲前往日本觀賞滿山遍野的螢火蟲，配合右圖日本島嶼位置與前線時間，以下選項中的抵達日期何者**較不適當**？
(A)九州島-- 4 月 30 日　(B)四國島-- 5 月 4 日
(C)本州島-- 5 月 30 日　(D)北海道-- 6 月 3 日

12. 圖中代號為上述所列舉之賞螢勝地其中四處。若廷瑋白天時於近畿平原地區觀光，傍晚時即前往附近丘陵上的室生川河岸觀賞螢火蟲，則右圖中何者最接近室生川賞螢地所在位置？
(A)甲　(B)乙　(C)丙　(D)丁

圖(四)

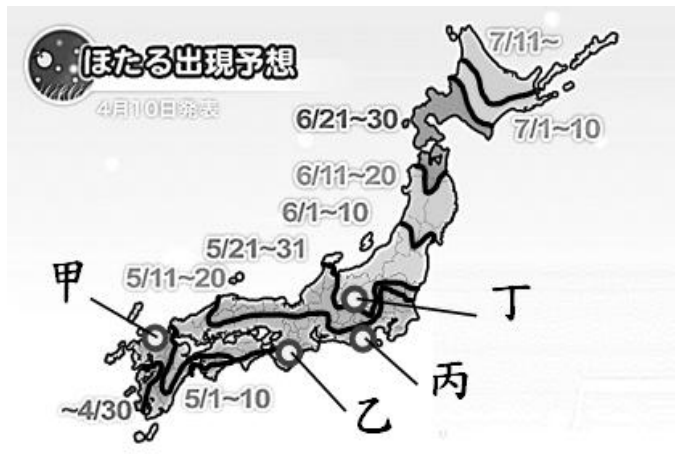

13. 廷瑋在賞螢期間利用手機查看天氣預報，發現日本氣象廳宣布近期即將迎來一波降水，請本地居民與賞螢觀光客多加留意。依照時間推斷，日本氣象廳所預報的降水最可能為以下何者？
(A)鋒面通過造成大範圍降雨　(B)強烈冷空氣南移降下大雪　(C)暖濕西南風帶來海洋水氣　(D)來自於日本海的熱帶低壓

第 14 至 15 題為題組

◎近期於網路上流行的短影音遊戲「Say the word on beat」，挑戰者在遊戲中需要在八個節拍內觀察題目圖片，並在下一個八拍講出符合圖片內容的答案，此遊戲多半進行五至八輪。因過程緊張刺激、節奏快速且富含趣味性，在國內外吸引了不少 Youtuber 與藝人相繼挑戰，並將遊戲成果放上大眾傳播平台，促進該遊戲的擴散與宣傳。請問：

14. 圖(五)為某一輪的遊戲畫面，上哲是該輪遊戲的挑戰者，已知題目要求為講出右圖中各個企業 LOGO 所屬的國家，若上哲全部回答正確挑戰成功，且答案僅包含日本與南韓，則右圖編號 1 至 4 的正確答案依序為何？
(A)日－日－韓－韓　(B)韓－日－韓－日
(C)日－韓－韓－日　(D)韓－日－日－韓

15. 圖(六)為下一輪的遊戲畫面，已知八張圖片皆為日、韓相關飲食，且編號 1 至 4 依序為握壽司、泡菜、御飯糰與辣炒年糕。若編號 5 至 8 的正確答案順序為「韓－韓－日－日」，則右圖中編號 6 至 8 的「？」最可能依序填入哪些食物？
(A) 
(B) 
(C) 
(D) 

圖(五)



圖(六)



第 16 至 17 題為題組

◎「脫北者」是指透過非正常管道離開北韓，前往南韓或其他國家的群體。這群北韓居民因生活基本需求匱乏與長期受到政府壓迫，為追求基本生存權，往往冒著被逮捕遣返甚至喪命的風險，選擇跨越國境逃離家鄉。作者芭芭拉·德米克於 2009 年出版的《我們最幸福》即是一本有關脫北者的紀實文學書籍，也揭開了許多關於北韓的神秘面紗。請問：

16. 圖(七)為北韓行政區劃圖。作者在書中寫到六名脫北者皆來自北韓第三大都市——清津市，已知清津市所在位置為靠日本海沿岸的一處港灣，鄰近國家邊境，曾為日本殖民時代的鋼鐵製造基地，現已是北韓工業重鎮。根據上述推斷，清津市最可能位於右圖中何處？
(A)甲　(B)乙　(C)丙　(D)丁

17. 書中深刻描述了脫北者逃難的艱苦：「在寒冬中，夜晚的■■結了厚冰，在月光下泛著冷冽的白光。對於那些決定離開的人來說，這條江是唯一的生路。向北跨過這段結冰的江面，對岸就是●●，但更大的考驗才剛開始。她必須走入★★山連綿的原始森林中，在陡峭的山脊間穿行，試圖避開◆◆邊防哨所的探照燈。」根據上述文意判斷，空格中所填入的文字以下何者正確？
(A)■■：漢江　(B)●●：中國　(C)★★：太白　(D)◆◆：南韓



▲ 圖(七)