新北市立福和國中 114 學年度第一學期第三次段考七年級社會科試題卷

歷史科【選擇題：17 題，共 34 分】

一、單題(18～32 題，每題 2 分)

18. 學校舉辦「歷史週漫畫比賽」，主題是想展現**清帝國統治初期漢人來臺**的生活情況。小美想以史實為依據創作漫畫內容，呈現當時真實情況。下列哪一項劇情「**最有可能**」出現在她的漫畫中？
(A)政府大力鼓勵來臺開墾，漢人常攜家帶眷來臺 (B)開墾土地時急需穩定水源，只好與人合資共同修築水圳
(C)移墾社會治安相當良好，械鬥或民變極少發生 (D)多數漢人依照法規能前進山區開發，並與原住民女子通婚。

19. 福和話劇社打算以「**臺灣開港後的西方文化橋樑**」為期末公演主題，根據每位同學的角色臺詞內容判斷，哪位同學所扮演的角色是「馬雅各」？
(A)小雨:我建議政府廢除劃界封山以利開山撫番 (B)小威:我為了推廣西式教育因而設立電報學堂
(C)小傑:我在臺南看西街成立西醫館替民眾治病 (D)小豪:我和助手替民眾拔牙並在淡水成立醫館。

20. 今臺北市內湖區有一處建成於 1770 年代的「林秀俊墓」，墓地主人林秀俊是福建漳州人，於 18 世紀初渡海來臺，在中北部開墾荒地，後來更成立「林成祖」墾號，致力臺北盆地的拓墾與開圳，因經營得宜，富甲一方。林秀俊的後代子孫基於「祀奉林秀俊，追溯祖德，發揮族親團結互助」的目的，成立祭祀公業。早期內湖一帶有 3 千多坪土地屬於該祭祀公業持有，後來轉賣給建設公司，僅保留 700 多坪墓地。上述祭祀公業的祭祀對象應該為何？
(A)開臺祖 (B)唐山祖 (C)有應公 (D)土地公。

21. 下列是某篇論文對臺灣商業發展的描述：「官員從各『郊』中挑選 12 名能力優秀商人，擔任委員，並設立『六和堂』，負責該區的商務問題。此外，這些委員也能在緊急任務、保甲團練、平抑物價等事務中發揮功能，甚至可以聯繫洋行、補充進出口物資，因此他們比一般百姓握有更多的社會資源。」根據上文判斷，文中的現象最可能發生於下列何處？
(A) 16 世紀的淡水地區 (B) 17 世紀的臺中地區 (C) 18 世紀的鹿港地區 (D) 19 世紀的臺南地區。

22. 平埔族人原本沒有姓氏只有名字，乾隆二十三年也開始實施賜姓改名政策，要求平埔族加上姓氏並改用漢名，當時給的姓有：潘、陳、劉、戴、李、王、錢、斛、蠻、林等，實際上以取用潘姓最多。因為漢人告訴平埔族說：潘姓最好，有水有米有田。請問：此政策之用意為何？
(A)向平埔族傳播漢人信仰 (B)防止平埔族群改信基督教 (C)為了執行開山撫番政策 (D)加速平埔族群漢化。

23. 下表(一)是臺灣在開港通商後，某一港口海關統計商品出口情形(單位:海關兩)。請判斷此港口是下列何者？
(A)淡水 (B)打狗 (C)艋舺 (D)大稻埕。

	1858 年	1873 年	1878 年	1883 年	1888 年	1893 年
茶	—	—	—	—	—	—
糖	506,075	881,881	1,020,853	1,650,374	1,312,676	1,272,757
樟腦	6,376	—	261	194	—	130,330

表(一)

年代	舉人	進士
康熙、雍正時期（1684～1735）	15 人	0 人
乾隆年間（1736～1795）	56 人	2 人
嘉慶、道光時期（1796～1850）	74 人	6 人
咸豐到光緒年間（1851～1894）	106 人	21 人

表(二)

圖(一)



24. 上表(二)是清代不同時期臺灣通過科舉考試的舉人與進士人數，從表中可以看出清代臺灣文教發展的哪一趨勢？
(A)治臺政策從消極轉為積極，藉增加錄取人數來強化開發 (B)臺灣由於械鬥、民變頻繁，故文風始終難以提昇
(C)考中舉人與進士的人數日漸增多，文教發展日盛 (D)在外國傳教士的引進新式教育的影響下，教育更加的普及。

25. 甄帥閱讀到一段史料在介紹「頂下郊拼」:「十九世紀，艋舺的泉州移民漸多，並發展出下郊(同安人移民組成)與頂郊(晉江、惠安、南安三縣移民合組)兩大行郊。兩大商業團體為了爭奪艋舺碼頭的貨運，時常發生衝突。西元 1853 年，雙方發生激烈的械鬥，而後大稻埕建了霞海城隍廟，奉祀從械鬥中救出的城隍爺神像。請問:上述「頂下郊拼」發生的主要原因為何? (A)祖籍不同 (B)爭奪田地 (C)爭奪水源 (D)商業競爭。

26. 臺灣的早期俗諺可反映清朝背景或政策，請問：以下俗諺的配對何者正確?
(A)「一個某，卡贏三個天公祖」:描述清初男女比例失衡的現象
(B)「六死、三留、一回頭」:描述越過番界開墾土地的艱辛
(C)「輸人不輸陣，輸陣歹看面」:描述臺灣原住民與漢人的衝突嚴重
(D)「有唐山公，無唐山媽」:開山撫番前，漢人與原住民女子合法結婚。

27. 清帝國統治早期，臺灣商業繁盛，出現了「一府二鹿三艋舺」之稱，其所反映出的歷史意義與下列何者**較無關係**？
(A)水利設施的多寡 (B)土地拓墾的順序(C)商業發展的過程 (D)港口貿易的發展。

28. 周凡在網路上搜尋歷史報告資料時，出現了一張臺灣史上某個歷史發展的示意圖（上圖一）。圖中以箭頭標示出多條移動路線，根據圖中箭頭所呈現的路線特徵，判斷這張示意圖最可能代表下列哪一項歷史發展？
(A)清代的開山撫番 (B)平埔族的大遷徙 (C)茶葉貿易的路線 (D)樟腦產業的拓展。

29. 品華在整理清朝臺灣補充資料時發現以下三段資料，分別摘錄自官方政策、朝廷大臣的奏報，以及地方文獻記載。

> **(甲)政府公布：「臺地現在開闢後山，舊例應行弛禁，所有從前不准內地人民渡臺及私入番境各例禁，已一律開除，不復禁止。」**
> ※**弛禁**：解除禁止
>
> **(乙)大臣報告：「臺灣雖屬外島，實關乎四省之要害，勿論彼中耕種猶能少資兵食，固當議留；即為不毛之地，必藉內地輾轉運輸，亦斷乎其不可棄。棄之必釀成大禍，留之誠永固邊疆。」**
> ※**勿論**：不用說　※**彼中**：那裡（指臺灣）※**不毛之地**：貧瘠、不能耕種的地方
>
> **(丙)某地地方志記載：「街衢縱橫，皆有大街，長三里許，泉廈郊商居多。舟車輻湊，百貨充盈。」**

根據上述三段資料的內容，判斷其反映的歷史事件發生時間**先後順序**，何者正確？
(A)乙丙甲　(B)乙甲丙　(C)丙甲乙　(D)丙乙甲。

30. 表(三)是小翰參加了一場闖關遊戲，遊戲規則要求解出神秘符號所代表的出口商品及提供相關資訊，才能闖關成功。請問:以下何項說法可以讓他過關？
(A)●是蔗糖，是歷史最悠久的出口產品，一律從淡水出口　(B)■是茶葉，是開港後的新興產品，造就大稻埕的崛起
(C)▲是稻米，在清帝國統治初期主要銷往中國大陸　(D)★是樟腦，產於中北部山區，出口量達世界第一

時期	出口總值前幾名商品
荷蘭在臺時期	★▲●
鄭氏在臺時期	▲●
清帝國統治初期	★▲
臺灣開港通商後	■▲◆

表(三)

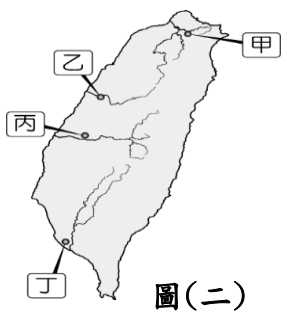

圖(二)

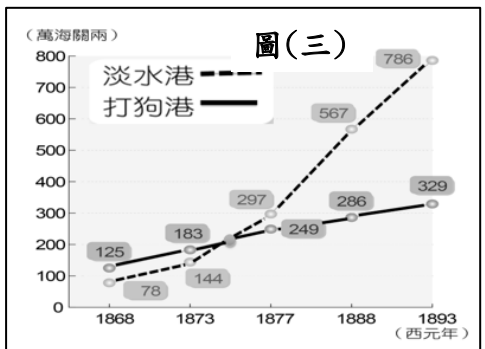

淡水、打狗進出口貿易值比較圖

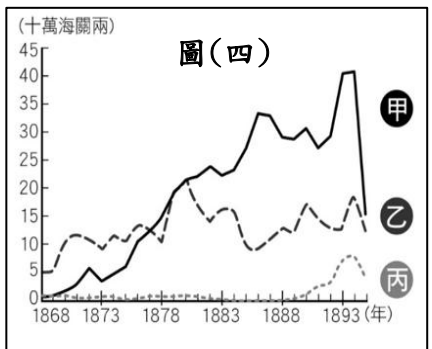

臺灣開港通商後主要商品出口值比較圖

31. 清代臺灣的土地拓墾通常伴隨著水利開發而發展，當時最具代表性的水利設施，如圖(二)所示；甲、乙、丙、丁分別代表所修築的水圳，請選出下列敘述何者正確？　(A)甲是八堡圳，因能結合官方力量，是清代臺灣最早興建的水利建設　(B)乙是貓霧捒圳，張達京與平埔族訂「割地換水」之約，屬於原漢合作開墾的例子　(C)丙是曹公圳，灌溉彰化地區，今天仍會舉辦「跑水節」感念先人　(D)丁是瑠公圳，灌溉臺北盆地，成為清代台灣灌溉面積最大的水圳。

32. **圖（三）為 1868 年至 1893 年淡水港與打狗港進出口貿易值的比較圖；圖（四）則呈現臺灣開港通商後，主要出口商品的出口值變化情形。**從圖（三）可以看出，1873 年以後淡水港的貿易值呈現倍增成長，而打狗港僅緩慢增加。請**同時參考圖（三）與圖（四）**，判斷下列哪一項最能解釋上述現象？
(A)牡丹社事件時，日軍攻打臺灣南部，導致港口損壞而貿易量受損　(B)因清法戰爭後，劉銘傳加強北部國防建設，導致淡水港出口量大增　(C)開港通商後，北部新興產業的商品熱銷海外，主要經由淡水港出口　(D)圖（四）中的甲、乙產品皆由淡水港出口，僅丙產品由打狗港出口，因此淡水港貿易量倍增。

二、題組:33～34 題，每題 2 分

※以下兩份資料分別來自不同的歷史研究書籍，都呈現出對清代臺灣歷史的觀點。(素養題)

> **資料一:**清代來臺的漢人移民，在臺灣這片土地上拓墾，其實很不容易。尤其是較晚來臺的移民，只能往靠山地區拓墾，因此有不少慘烈的犧牲。例如：道光 15 年(西元 1835 年)組成的「金廣福」墾號，在入墾新竹靠山地區的過程中，就曾與原住民族浴血奮戰十數次，因此今日在當地還可見到不少的大墓公或萬善祠等埋葬無主孤魂的場所，反映漢人移民在土地開發的過程中死傷慘重。此外，墾戶為了守住拓墾的土地，也常面臨被原住民族突襲殺害的危險。先民們為了在這片土地上生存，可說是歷盡艱辛。

> **資料二:**清代的臺灣史，過去往往被寫成是「漢人開發血淚史」，但是對原住民族來說，這又是怎樣的一段歷史呢？對漢人來說，他們眼中未開發的平原荒地，其實本是平埔族群的家園，但在一兩百年內，卻因為漢人的不斷拓墾，幾乎全部落入漢人手中，迫使部分平埔村社往內山與東臺灣遷移。儘管有劃界封山政策，「番界」卻不斷往東移動，以致高山族原住民也無法避免被衝擊的命運。然而，原住民族的遭遇，在「漢人開發血淚史」的歷史書寫中，卻常常就這麼被忽略了，值得省思。

33. 根據**資料一作者的觀點**判斷，下列內容何者**有誤**?　(A)漢人拓墾的重大威脅來自原住民族的襲擊　(B)近山地區的大墓公是原漢衝突證據　(C)原漢之間的相處除了衝突也有合作　(D)資料一是站在漢人族群的立場描述拓墾過程的艱辛。

34. 根據上文，**資料二作者的論點**包括下列哪些？(甲)支持「漢人開發血淚史」的說法(乙)認為漢人開發對原住民造成傷害(丙)肯定清廷實施劃界封山頗具成效　(丁)指出原住民是在漢人逼迫下遷移
正確選項是　(A)甲乙　(B)乙丁　(C)乙丙丁　(D)甲乙丙丁。